خرید کتاب های کنکور

با تخفیف ویژه

و

ارسال رایگان

Medabook.com

یک جلسه تماس تلفنی رایگان

با مشاوران رتبه برتر

برای انتخاب بهترین منابع

دبیرستان و کنکور

۰۲۱ ۲۸۴۲۵۲۱۰

telegram.me/medabook_com www.medabook.com

درسنامه ۱

مجموع جملات دنبالهٔ حسابی

یادآوری از دنباله‌های حسابی

اگر از سال گذشته به یاد داشته باشید، جملات دنباله‌های حسابی از جمع عددی ثابت با جملهٔ قبل آن، به‌دست می‌آیند:

$$a_1, \underbrace{a_1+d}_{a_2}, \underbrace{a_1+2d}_{a_3}, \underbrace{a_1+3d}_{a_4}, \cdots \Rightarrow \boxed{a_n = a_1 + (n-1)d}$$

(a_n، جملهٔ عمومی و d، قدرنسبت دنباله می‌باشد.)

بنابراین اختلاف هر دو جملهٔ متوالی در دنباله‌های حسابی، برابر با قدرنسبت دنباله است:

$$a_n - a_{n-1} = d \Rightarrow \boxed{a_n - a_m = (n-m)d}$$

نکته

اگر a، b و c سه جملهٔ متوالی از دنبالهٔ حسابی باشند، b واسطهٔ حسابی بین a و c است و در نتیجه: $\boxed{2b = a+c \text{ یا } b = \frac{a+c}{2}}$

مثال

مقدار a را از دنبالهٔ حسابی $-1, a, 5, \cdots$ بیابید. سپس قدرنسبت این دنباله را به‌دست آورید.

پاسخ:

$$-1, a, 5, \cdots \xrightarrow{\text{دنبالهٔ حسابی}} 2a = (-1)+5 \Rightarrow 2a = 4 \Rightarrow a = \frac{4}{2} = 2 \;,\; d = 2-(-1) = 3$$

مجموع جملات دنباله‌های حسابی

برای پیدا کردن مجموع n عدد طبیعی متوالی اولیه یعنی $1+2+3+\cdots+n$، جناب گاوس یک ابتکار به خرج دادند و به روش زیر، این حاصل جمع را محاسبه کردند:

$$\begin{array}{ccccccccc} 1 & + & 2 & + & 3 & + \cdots + & n \\ \downarrow & & \downarrow & & \downarrow & & \downarrow \\ +(n & & +(n-1) & & +(n-2) & +\cdots+ & 1) \end{array}$$

$$\underbrace{(n+1)+(n+1)+(n+1)+\cdots+(n+1)}_{\text{تا } n} = n(n+1) \Rightarrow 2(1+2+\cdots+n) = n(n+1)$$

و در نتیجه داریم:

$$\boxed{1+2+3+\cdots+n = \frac{n(n+1)}{2}}$$

مثال

مجموع چه تعداد از اعداد طبیعی اولیه، برابر با ۲۱۰ می‌گردد؟

پاسخ:

$$1+2+3+\cdots+n = 210 \Rightarrow \frac{n(n+1)}{2} = 210 \Rightarrow n(n+1) = 420 \Rightarrow n(n+1) = 20 \times 21 \Rightarrow n = 20$$

حالا می‌توانیم از همین ابتکار الگو بگیریم و مجموع n جملهٔ متوالی یک دنبالهٔ حسابی با جملهٔ اول a_1 و جملهٔ nام a_n را پیدا کنیم:

$$S_n = \underset{\downarrow}{a_1} + \overbrace{\underset{\downarrow}{(a_1+d)}}^{a_2} + \overbrace{\underset{\downarrow}{(a_1+2d)}}^{a_3} + \cdots + \overbrace{\underset{\downarrow}{(a_1+(n-2)d)}}^{a_{n-1}} + \overbrace{\underset{\downarrow}{(a_1+(n-1)d)}}^{a_n}$$

$$(a_1+(n-1)d) + (a_1+(n-2)d) + (a_1+(n-3)d) + \cdots + (a_1+d) + a_1 = S_n$$

$$\Rightarrow 2S_n = \underbrace{(2a_1+(n-1)d)+(2a_1+(n-1)d)+(2a_1+(n-1)d)+\cdots+(2a_1+(n-1)d)+(2a_1+(n-1)d)}_{\text{تا } n}$$

$$\Rightarrow 2S_n = n(2a_1+(n-1)d) \Rightarrow \boxed{S_n = a_1+\cdots+a_n = \frac{n(2a_1+(n-1)d)}{2}}$$

مشاوره و راهنمای انتخاب بهترین منابع کنکور : 021-28425210

telegram.me/medabook_com www.medabook.com

درسنامه ۱

و در نتیجه اگر از فرمول جملهٔ nاُم دنبالهٔ حسابی یعنی $a_n = a_1 + (n-1)d$ کمک بگیریم، داریم:

$$S_n = \frac{n}{2}(2a_1 + (n-1)d) = \frac{n}{2}(a_1 + \overbrace{(a_1 + (n-1)d)}^{a_n}) \Rightarrow \boxed{S_n = a_1 + a_2 + \cdots + a_n = \frac{n(a_1 + a_n)}{2}}$$

مثال

مجموع چند جملهٔ اول از دنبالهٔ حسابی ۱۲،۹،۶،... برابر صفر است؟

پاسخ: با یک دنبالهٔ حسابی با قدرنسبت $d = -3$ مواجه‌ایم، پس داریم:

$$S_n = 0 \Rightarrow \frac{n(2a_1 + (n-1)d)}{2} = 0 \xrightarrow[d=-3]{a_1=12} n(2(12) + (n-1)(-3)) = 0 \Rightarrow 24 - 3n + 3 = 0 \Rightarrow 3n = 27 \Rightarrow n = 9$$

بنابراین مجموع ۹ جملهٔ اول این دنبالهٔ حسابی برابر صفر است.

مثال

در یک دنبالهٔ حسابی اگر $a_{12} + a_9 = 15$ باشد، مجموع ۲۰ جملهٔ اول این دنباله را بیابید.

پاسخ:

$$a_{12} + a_9 = (a_1 + 11d) + (a_1 + 8d) = 2a_1 + 19d \Rightarrow 2a_1 + 19d = 15 \quad (*)$$

$$S_{20} = \frac{20}{2}(2a_1 + 19d) \overset{(*)}{=} 10(15) = 150$$

نکته

اگر a، b و c سه جملهٔ متوالی از دنبالهٔ حسابی باشند، b واسطهٔ حسابی بین a و c است و در نتیجه:

۱) $a_1 = S_1$

۲) $S_n - S_{n-1} = a_n$

زیرا: $S_n - S_{n-1} = (a_1 + \cdots + a_{n-1} + a_n) - (a_1 + \cdots + a_{n-1}) = a_n$

مثال

اگر مجموع n جملهٔ اول یک دنبالهٔ حسابی از فرمول $S_n = 5n^2 + 3n$ به‌دست آید، قدرنسبت و جملهٔ عمومی دنباله را بیابید.

پاسخ:

$$\begin{cases} a_1 = S_1 = 5(1)^2 + 3(1) = 8 \\ a_2 = S_2 - S_1 = 26 - 8 = 18 \Rightarrow d = a_2 - a_1 = 18 - 8 = 10 \end{cases} \quad , \quad S_2 = a_1 + a_2 = 5(2)^2 + 3(2) = 20 + 6 = 26 \Rightarrow a_n = a_1 + (n-1)d = 8 + 10(n-1) = 10n - 2$$

توجه کنید که جملهٔ عمومی دنباله را به طور مستقیم از فرمول S_n هم می‌توانستیم بیابیم:

$$a_n = S_n - S_{n-1} = 5n^2 + 3n - (5(n-1)^2 + 3(n-1))$$

$$= 5n^2 + 3n - (5n^2 - 10n + 5 + 3n - 3) = \cancel{5n^2} + \cancel{3n} - \cancel{5n^2} + 10n - 5 - \cancel{3n} + 3 = 10n - 2 \Rightarrow a_n = 10n - 2$$

مثال

مجموع اعداد دو رقمی مضرب ۶ را بیابید.

پاسخ: اعداد دو رقمی مضرب ۶ : $\underbrace{12}_{+6}, \underbrace{18}_{+6}, 24, \cdots, a_n = 12 + 6(n-1) = 6n + 6$

اولاً باید: $a_n = 6n + 6 < 100 \Rightarrow 6n < 94 \Rightarrow n < \frac{94}{6} \simeq 15/6 \Rightarrow n \leq 15$

و بنابراین: $S_n = \frac{n}{2}(2a_1 + (n-1)d) \overset{n=15}{=\!=} \frac{15}{2}(2(12) + \underbrace{(15-1)}_{14}(6)) = \frac{15}{2} \times 108 = 810$

مشاوره و راهنمای انتخاب بهترین منابع کنکور : 021-28425210

telegram.me/medabook_com www.medabook.com

۱. به کمک شکل‌های روبه‌رو، مجموع n عدد طبیعی اولیه (از ۱ تا n) را به‌دست آورید. (مشابه فعالیت صفحهٔ ۲ کتاب درسی)

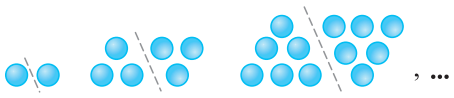

۲. به کمک شکل روبه‌رو ثابت کنید مجموع n عدد فرد متوالی اولیه، برابر با n^2 است. (مشابه تمرین ۲ صفحهٔ ۶ کتاب درسی)

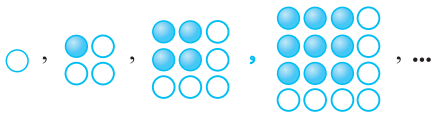

– در هر یک از دنباله‌های حسابی زیر، مجموع بیست جملهٔ اول را بیابید.

۳. $-۵۰۰, ۵, ۰۰۰$ (نهایی- شهریور ۹۲)

۴. $-۵۰, -۳۰, -۱۰, ۰۰۰$ (نهایی- دی ۹۱)

۵. مجموع جملات دنبالهٔ $۴۰, ۷۰, ۱۰۰, ۰۰۰, ۱۰۰$ را بیابید. (نهایی شهرستان- دی ۹۵)

۶. مجموع اعداد فرد مضرب ۳ و کوچک‌تر از ۱۰۰ چقدر است؟ (مشابه تمرین ۳ صفحهٔ ۶ کتاب درسی)

۷. مجموع اعداد طبیعی سه رقمی مضرب ۱۵ چقدر است؟

۸. در یک دنبالهٔ حسابی هر جمله از جملهٔ ماقبل خود به اندازهٔ $\frac{۱}{۲}$ بیش‌تر است. اگر جملهٔ هفتم برابر ۱۳ باشد، مجموع ۲۰ جملهٔ اول دنباله چقدر است؟

۹. در یک دنبالهٔ حسابی جملات هفتم و دوازدهم به ترتیب ۳۲ و ۱۲ می‌باشد. مجموع ۱۵ جملهٔ اول این دنباله را بیابید.

۱۰. در دنبالهٔ حسابی $۳۰, ۱۵, ۰۰۰$، حداقل چند جملهٔ آن را باید با هم جمع کنیم تا حاصل از ۳۰۰ بیش‌تر شود؟ (مشابه تمرین ۱ صفحهٔ ۶ کتاب درسی و نهایی- دی ۹۳)

۱۱. در یک دنبالهٔ حسابی جملهٔ چهارم برابر با ۳ و جملهٔ هفتم برابر با ۱۲ است،

آ) جملهٔ اول و قدرنسبت دنباله را بیابید.

ب) حداکثر چند جمله از آن را با هم جمع کنیم، تا حاصل کم‌تر از ۴۵۰ شود؟

۱۲. در دنبالهٔ حسابی با جملهٔ عمومی $a_n = ۳ - ۲n$، مجموع n جملهٔ اولیهٔ دنباله (S_n) را بیابید، سپس مجموع ۱۵ جملهٔ اول آن را به‌دست آورید.

۱۳. اگر مجموع n جملهٔ اول یک دنبالهٔ حسابی $S_n = \frac{۶n^2 - ۵n}{۱۲}$ باشد،

آ) قدرنسبت و جملهٔ اول آن را به‌دست آورید. ب) مجموع ۱۰ جملهٔ اول آن چقدر است؟

۱۴. در یک دنبالهٔ حسابی با ۲۰ جمله، مجموع جملات ردیف فرد برابر ۲۴۰ و مجموع جملات ردیف زوج برابر با ۲۷۰ می‌باشد، جملهٔ اول و قدرنسبت دنباله را بیابید. (مشابه تمرین ۴ صفحهٔ ۶ کتاب درسی)

۱۵. در یک دنبالهٔ حسابی با ۱۰ جمله، مجموع ۵ جملهٔ اول برابر ۲۵ و مجموع ۵ جملهٔ آخر برابر ۱۰۰ می‌باشد، جملهٔ اول و قدرنسبت دنباله را بیابید.

۱۶. در یک دنبالهٔ حسابی با جملهٔ اول $a_۱$:

آ) اگر قدرنسبت یک واحد افزایش یابد، به مجموع ۱۰ جملهٔ اول آن چند واحد افزوده می‌شود؟

ب) اگر همهٔ جملات دو برابر شوند، مجموع ۱۰ جملهٔ اول آن چند برابر می‌شود؟

۱۷. مجموع چند عدد طبیعی اولیه، $\frac{۳}{۵}$ مربع تعداد آن‌ها می‌باشد؟

۱۸. بر روی محیط یک دایره n نقطه قرار دارد. از هر نقطه به نقاط دیگر وصل می‌کنیم. اگر تعداد کل پاره‌خط‌های ایجادشده برابر ۵۵ باشد، تعداد این نقاط چند تا است؟ (این مسئله را به دو روش حل کنید.) (مشابه مثال صفحهٔ ۳ کتاب درسی)

۱۹. یک موسسهٔ خیریه در اولین سال فعالیت خود ۵۰۰ خانوار را تحت پوشش خود دارد. اگر هدف این موسسه آن باشد که هر سال ۴۰ خانوار را به اعضای تحت پوشش خود بیفزاید، پس از ۱۰ سال مجموعاً چند خانوار را تحت پوشش خواهد داشت؟

۲۰. یک مسابقهٔ دو، طوری طراحی شده که از کنار یک سبد شروع به دویدن کرده، در ایستگاه اول یک توپ برداشته، برمی‌گردیم و در سبد می‌اندازیم و سپس تا ایستگاه دوم رفته و دو توپ برمی‌داریم و در سبد می‌اندازیم و به همین ترتیب تا ایستگاه nاُم رفته، n توپ برمی‌داریم و در سبد می‌اندازیم. اگر دونده‌ای در مجموع ۵۵ توپ در سبد انداخته باشد و فاصلهٔ بین هر دو ایستگاه متوالی و هم‌چنین ایستگاه اول تا سبد، ۲ متر باشد، مجموع مسافت‌های طی‌شده توسط این دونده را بیابید. (مشابه مثال صفحهٔ ۴ کتاب درسی)

مشاوره و راهنمای انتخاب بهترین منابع کنکور : 021-28425210

telegram.me/medabook_com www.medabook.com

پاسخ‌های تشریحی

۱

$$۲(۱)=۱\times۲$$
$$۲(۱+۲)=۲\times۳$$
$$۲(۱+۲+۳)=۳\times۴$$
$$\vdots$$
$$۲(۱+۲+\cdots+n)=n\times(n+۱)\Rightarrow ۱+۲+۳+\cdots+n=\frac{n(n+۱)}{۲}$$

۲

$$۱=۱^۲$$
$$۱+۳=۲^۲$$
$$۱+۳+۵=۳^۲$$
$$۱+۳+۵+۷=۴^۲$$
$$۱+۳+۵+۷+۹=۵^۲$$
$$\vdots$$
$$\underbrace{۱+۳+۵+\cdots+(۲n-۱)}_{\text{مجموع n عدد فرد اولیه}}=n^۲$$

---

۳ با یک دنبالهٔ حسابی با جملهٔ اول $a_۱=-۵$ و قدرنسبت $d=۰-(-۵)=۵$ مواجه‌ایم. بنابراین:

$$S_n=\frac{n}{۲}(۲a_۱+(n-۱)d)$$
$$\xrightarrow{n=۲۰} S_{۲۰}=\frac{۲۰}{۲}(۲a_۱+۱۹d)\xrightarrow[d=۵]{a_۱=-۵}\frac{۲۰}{۲}(۲(-۵)+۱۹(۵))$$
$$\Rightarrow S_{۲۰}=۱۰(-۱۰+۹۵)=۱۰\times۸۵=۸۵۰$$

---

۴ با یک دنبالهٔ حسابی با جملهٔ اول $a_۱=-۵$ و قدرنسبت $d=-۳-(-۵)=۲$ مواجه‌ایم:

$$S_n=\frac{n}{۲}(۲a_۱+(n-۱)d)$$
$$\xrightarrow{n=۲۰} S_{۲۰}=\frac{۲۰}{۲}(۲a_۱+۱۹d)\xrightarrow[d=۲]{a_۱=-۵}\frac{۲۰}{۲}(۲(-۵)+۱۹(۲))$$
$$\Rightarrow S_{۲۰}=۱۰(-۱۰+۳۸)=۱۰\times۲۸=۲۸۰$$

۵

$$\underbrace{۴\ ,\ ۷\ ,\ ۱۰\ ,\ \cdots\ ,\ ۱۰۰}_{\text{دنبالهٔ حسابی با } a_۱=۴ \text{ و قدرنسبت } d=۳}$$

حال تعداد جملات دنباله را می‌یابیم:

$$a_n=۱۰۰\xrightarrow{a_n=a_۱+(n-۱)d}۴+(n-۱)(۳)=۱۰۰\Rightarrow ۳(n-۱)=۹۶$$
$$\Rightarrow n-۱=\frac{۹۶}{۳}=۳۲\Rightarrow n=۳۳$$
$$\Rightarrow S_{۳۳}=۴+۷+\cdots+۱۰۰=\frac{۳۳}{۲}(a_۱+a_n)=\frac{۳۳}{۲}(۴+۱۰۰)$$
$$\Rightarrow S_{۳۳}=\frac{۳۳\times\overset{۵۲}{\cancel{۱۰۴}}}{\cancel{۲}}=۱۷۱۶$$

۶

$$\underbrace{۳\ ,\ \overset{+۶}{\frown}\ ۹\ ,\ \overset{+۶}{\frown}\ ۱۵\ ,\ \cdots\ ,\ ۹۹}_{\text{دنبالهٔ حسابی با } a_۱=۳ \text{ و قدرنسبت } d=۶}$$

: اعداد فرد مضرب ۳ و کوچک‌تر از ۱۰۰

حال تعداد جملات دنباله را می‌یابیم:

$$a_n=۹۹\xrightarrow{a_n=a_۱+(n-۱)d}۳+(n-۱)(۶)=۹۹\Rightarrow ۶(n-۱)=۹۶$$
$$\Rightarrow n-۱=\frac{۹۶}{۶}=۱۶\Rightarrow n=۱۷$$

و بنابراین مجموع این جملات برابر است با:

$$S_{۱۷}=\frac{۱۷}{۲}(a_۱+a_n)=\frac{۱۷}{۲}(۳+۹۹)=\frac{۱۷\times\overset{۵۱}{\cancel{۱۰۲}}}{\cancel{۲}}=۸۶۷$$

---

۷ اعداد بخش‌پذیر بر ۱۵، بر ۳ و ۵ هم بخش‌پذیرند و اولین عدد سه‌رقمی که بر ۳ و ۵ بخش‌پذیر باشد، ۱۰۵ است.

$$۱۰۵\ ,\ \overset{+۱۵}{\frown}\ ۱۲۰\ ,\ \overset{+۱۵}{\frown}\ ۱۳۵\ ,\ \cdots$$

برای یافتن تعداد اعداد سه‌رقمی بخش‌پذیر بر ۱۵ داریم:

$$a_n=a_۱+(n-۱)d<۱۰۰۰\Rightarrow ۱۰۵+(n-۱)(۱۵)<۱۰۰۰$$
$$\Rightarrow ۱۵n+۹۰<۱۰۰۰\Rightarrow ۱۵n<۹۱۰\Rightarrow n<\frac{۹۱۰}{۱۵}\simeq ۶۰/۶\Rightarrow n\le ۶۰$$

بنابراین داریم: $S_{۶۰}=\frac{۶۰}{۲}(۲a_۱+۵۹d)=\frac{۶۰}{۲}(۲(۱۰۵)+۵۹(۱۵))$

$$=۳۰\overbrace{(۲۱۰+۸۸۵)}^{۱۰۹۵}=۳۲۸۵۰$$

---

۸ چون هر جمله از جملهٔ قبلش به اندازهٔ $\frac{۱}{۲}$ بیش‌تر است، پس قدرنسبت دنبالهٔ حسابی برابر $d=\frac{۱}{۲}$ است و چون $a_۷=۱۳$، پس داریم:

$$a_۷=a_۱+۶d=۱۳\xrightarrow{d=\frac{۱}{۲}}a_۱+۶\left(\frac{۱}{۲}\right)=۱۳$$
$$\Rightarrow a_۱+۳=۱۳\Rightarrow a_۱=۱۳-۳=۱۰$$
$$S_{۲۰}=\frac{۲۰}{۲}(۲a_۱+۱۹d)\xrightarrow[d=\frac{۱}{۲}]{a_۱=۱۰}۱۰\left(۲(۱۰)+۱۹\left(\frac{۱}{۲}\right)\right)$$
$$=۱۰\overbrace{(۲۰+۹/۵)}^{۲۹/۵}=۲۹۵$$

۹

$$\begin{cases}a_۷=۳۲\\ a_{۱۲}=۱۲\end{cases}\xrightarrow{a_n-a_m=(n-m)d}a_۷-a_{۱۲}=(۷-۱۲)d$$
$$\Rightarrow \overbrace{۳۲-۱۲}^{۲۰}=-۵d\Rightarrow d=-۴$$
$$a_۷=a_۱+۶d=۳۲\xrightarrow{d=(-۴)}a_۱+۶(-۴)=۳۲\Rightarrow a_۱=۳۲+۲۴=۵۶$$
$$\Rightarrow S_{۱۵}=\frac{۱۵}{۲}(۲a_۱+۱۴d)=\frac{۱۵}{۲}(۲(۵۶)+۱۴(-۴))$$
$$=\frac{۱۵}{۲}(۱۱۲-۵۶)=\frac{۱۵}{\cancel{۲}}\times\overset{۲۸}{\cancel{۵۶}}=۴۲۰$$

مشاوره و راهنمای انتخاب بهترین منابع کنکور : 021-28425210

telegram.me/medabook_com www.medabook.com

۱۰

$+۶ \quad +۶$

دنبالهٔ حسابی با $d=۶$ و $a_۱=۳$ $\Rightarrow ۳,۹,۱۵,\dots$

$$S_n>۳۰۰ \Rightarrow \frac{n}{۲}(۲a_۱+(n-۱)d)>۳۰۰$$

$$\Rightarrow \frac{n}{۲}(۲(۳)+(n-۱)(۶))>۳۰۰$$

$$\Rightarrow \frac{n}{۲}(۶+۶(n-۱))>۳۰۰ \xrightarrow{\text{فاکتور از } ۶} \frac{۶n}{۲}(\underbrace{۱+n-۱}_{n})>۳۰۰$$

$$\Rightarrow ۳n^۲>۳۰۰ \Rightarrow n^۲>۱۰۰ \Rightarrow n>۱۰ \Rightarrow n\geq ۱۱$$

حداقل ۱۱ جمله را باید با هم جمع کنیم.

---

۱۱ آ)

$$\begin{cases} a_۴=۳ \\ a_۷=۱۲ \end{cases} \xrightarrow{a_n-a_m=(n-m)d} a_۴-a_۷=(۴-۷)d$$

$$\Rightarrow ۳-۱۲=(-۳)d \Rightarrow d=\frac{-۹}{-۳}=۳$$

$$\Rightarrow a_۴=a_۱+۳d=۳ \Rightarrow a_۱+۳(۳)=۳ \Rightarrow a_۱=۳-۹=-۶$$

ب)

$$S_n<۴۵۰ \Rightarrow \frac{n}{۲}(۲a_۱+(n-۱)d)<۴۵۰$$

$$\xrightarrow[d=۳]{a_۱=-۶} \frac{n}{۲}(\underbrace{۲(-۶)+(n-۱)(۳)}_{۳n-۱۵})<۴۵۰$$

$$\xrightarrow{\text{فاکتور از } ۳} \frac{۳n}{۲}(n-۵)<۴۵۰$$

$$\xrightarrow{\div \frac{۳}{۲}} n(n-۵)<۳۰۰ \Rightarrow n^۲-۵n-۳۰۰<۰$$

$$\Rightarrow (n-۲۰)(n+۱۵)<۰ \xrightarrow{\text{تعیین علامت}} -۱۵<n<۲۰$$

$$\xrightarrow{n>۰} n<۲۰ \Rightarrow n\leq ۱۹$$

حداکثر ۱۹ جمله را می‌توانیم با هم جمع کنیم.

۱۲

$$a_n=۳-۲n \Rightarrow a_۱=۳-۲=۱ \Rightarrow S_n=\frac{n}{۲}(a_۱+a_n)$$

$$=\frac{n}{۲}(۱+۳-۲n)$$

$$\Rightarrow S_n=\frac{n}{۲}(-۲n+۴) \xrightarrow{\text{فاکتور از } ۲} \frac{۲n}{۲}(-n+۲)=n(۲-n)$$

$$\Rightarrow S_{۱۵}=۱۵(\underbrace{۲-۱۵}_{-۱۳})=۱۵\times(-۱۳)=-۱۹۵$$

روش اول:

روش دوم:

$$a_n=۳-۲n \begin{cases} \xrightarrow{n=۱} a_۱=۳-۲=۱ \\ \xrightarrow{n=۱۵} a_{۱۵}=۳-۲(۱۵)=۳-۳۰=-۲۷ \end{cases}$$

$$S_{۱۵}=\frac{۱۵}{۲}(a_۱+a_{۱۵})=\frac{۱۵}{۲}(۱-۲۷)=\frac{۱۵\times \overset{-۱۳}{\cancel{(-۲۶)}}}{\cancel{۲}}=-۱۹۵$$

---

۱۳ آ)

$$S_n=\frac{۶n^۲-۵n}{۱۲} \Rightarrow \begin{cases} S_۱=a_۱=\frac{۶-۵}{۱۲}=\frac{۱}{۱۲} \\ S_۲=a_۱+a_۲=\frac{۶(۴)-۵(۲)}{۱۲}=\frac{۱۴}{۱۲} \end{cases}$$

$$a_۲=S_۲-S_۱=\frac{۱۴}{۱۲}-\frac{۱}{۱۲}=\frac{۱۳}{۱۲}$$

$$d=a_۲-a_۱=\frac{۱۳}{۱۲}-\frac{۱}{۱۲}=\frac{۱۲}{۱۲}=۱$$

ب)

$$S_{۱۰}=\frac{۶(۱۰)^۲-۵(۱۰)}{۱۲}=\frac{۶۰۰-۵۰}{۱۲}=\frac{۵۵۰}{۱۲}=\frac{۲۷۵}{۶}$$

۱۴

$+d \quad +d$

$a_۱ , a_۲ , a_۳ , a_۴ , \dots , a_{۲۰}$

$+۲d \quad +۲d$

۱۰ جمله از دنبالهٔ حسابی با جملهٔ اول $a_۱$ و قدرنسبت $۲d$

$+۲d \quad +۲d$

$$\begin{cases} a_۱+a_۳+a_۵+\dots+a_{۱۹}=۲۴۰ \\ a_۲+a_۴+a_۶+\dots+a_{۲۰}=۲۷۰ \end{cases}$$

$+۲d \quad +۲d$

۱۰ جمله از دنبالهٔ حسابی با جملهٔ اول $a_۲$ و قدرنسبت $۲d$

$$\Rightarrow \begin{cases} \frac{۱۰}{۲}(۲a_۱+۹(۲d))=۲۴۰ \\ \frac{۱۰}{۲}(۲\underbrace{a_۲}_{a_۱+d}+۹(۲d))=۲۷۰ \end{cases} \Rightarrow \begin{cases} ۵(۲a_۱+۱۸d)=۲۴۰ \\ ۵(۲a_۱+۲d+۱۸d)=۲۷۰ \end{cases}$$

$$\Rightarrow \begin{cases} ۲a_۱+۱۸d=۴۸ \\ ۲a_۱+۲۰d=۵۴ \end{cases} \xrightarrow{\text{از هم کم می‌کنیم.}} ۲۰d-۱۸d=۵۴-۴۸$$

$$\Rightarrow ۲d=۶ \Rightarrow d=۳$$

$$\xrightarrow{۲a_۱+۱۸d=۴۸} ۲a_۱+۱۸(۳)=۴۸ \Rightarrow ۲a_۱=۴۸-۵۴=-۶$$

$$\Rightarrow a_۱=-۳$$

۱۵

$$\begin{cases} a_۱+a_۲+\dots+a_۵=۲۵ \Rightarrow \frac{۵}{۲}(۲a_۱+۴d)=۲۵ \\ a_۶+\dots+a_{۱۰}=۱۰۰ \Rightarrow \frac{۵}{۲}(۲a_۶+۴d)=۱۰۰ \end{cases}$$

$$\Rightarrow \begin{cases} \frac{۵}{۲}\times ۲(a_۱+۲d)=۲۵ \Rightarrow ۵(a_۱+۲d)=۲۵ \\ \frac{۵}{۲}\times ۲(a_۶+۲d)=۱۰۰ \Rightarrow ۵(a_۱+۵d+۲d)=۱۰۰ \end{cases}$$

$$\Rightarrow \begin{cases} a_۱+۲d=۵ \\ a_۱+۷d=۲۰ \end{cases} \xrightarrow{\text{از هم کم می‌کنیم.}} ۷d-۲d=۲۰-۵ \Rightarrow ۵d=۱۵$$

$$\Rightarrow d=۳ \xrightarrow{a_۱+۲d=۵} a_۱+۲(۳)=۵ \Rightarrow a_۱=۵-۶=-۱$$

---

۱۶ آ)

$$S_{۱۰}=\frac{۱۰}{۲}(۲a_۱+۹d)=۵(۲a_۱+۹d)$$

$$S'_{۱۰}=\frac{۱۰}{۲}(۲a_۱+۹(d+۱))=۵(۲a_۱+۹d+۹)=۵(۲a_۱+۹d)+۴۵$$

$$\Rightarrow S'_{۱۰}-S_{۱۰}=۴۵ \Rightarrow$$ ۴۵ واحد افزوده می‌شود.

ب)

$$S_{۱۰}=\frac{۱۰}{۲}(a_۱+a_{۱۰})$$

$$S'_{۱۰}=\frac{۱۰}{۲}(\underbrace{۲a_۱+۲a_{۱۰}}_{\text{فاکتور از } ۲})=۲\left(\frac{۱۰}{۲}(a_۱+a_{۱۰})\right)=۲S_{۱۰} \Rightarrow$$ ۲ برابر می‌شود.

مشاوره و راهنمای انتخاب بهترین منابع کنکور : 021-28425210

telegram.me/medabook_com www.medabook.com

۱۷ $1+2+\cdots+n=\frac{3}{5}n^2 \Rightarrow \frac{n(n+1)}{2}=\frac{3n^2}{5}$

$\Rightarrow \frac{n^2+n}{2}=\frac{3n^2}{5} \xrightarrow{\text{طرفین وسطین}} 5n^2+5n=6n^2$

$\Rightarrow n^2-5n=0 \xrightarrow{n\neq 0} n=5$

---

۱۸ **روش اول:** از نقطهٔ اول به $(n-1)$ نقطهٔ دیگر وصل می‌کنیم $\Leftarrow (n-1)$ پاره‌خط

از نقطهٔ دوم به $(n-2)$ نقطهٔ دیگر (همه به غیر از نقطهٔ اول) وصل می‌کنیم. $\Leftarrow (n-2)$ پاره خط

از نقطهٔ سوم به $(n-3)$ نقطهٔ دیگر (همه به غیر از نقاط اول و دوم) وصل می‌کنیم. $\Leftarrow (n-3)$ پاره خط

با ادامهٔ این روند، تعداد پاره‌خط‌های ایجادشده برابر است با:

$(n-1)+(n-2)+(n-3)+\cdots+2+1$

$=\frac{(n-1)}{2}(\overbrace{(n-1)+1}^{n})=\frac{n(n-1)}{2}$

$\Rightarrow \frac{n(n-1)}{2}=55 \Rightarrow n(n-1)=110$

$\Rightarrow n(n-1)=11\times 10 \Rightarrow n=11$

روش دوم (ترکیبیات): برای داشتن هر پاره‌خط کافی است دو نقطه از آن را انتخاب کنیم، در نتیجه:

تعداد پاره‌خط‌ها $=\binom{n}{2}=55 \Rightarrow \frac{n(n-1)}{2}=55$

$\Rightarrow n(n-1)=110=11\times 10 \Rightarrow n=11$

---

۱۹ $a_1=500 \quad , \quad d=40$

$\xrightarrow{S_n=\frac{n}{2}(2a_1+(n-1)d)} S_{10}=\frac{10}{2}(2a_1+9d)=5(2(500)+9(40))$

$\Rightarrow S_{10}=5(1000+360)=1360\times 5=6800$ خانوار

۲۰

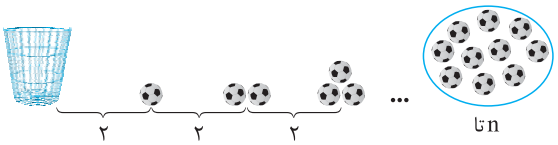

مجموع توپ‌هایی که دونده در سبد انداخته ۵۵ تاست، بنابراین داریم:

$1+2+3+\cdots+n=55 \Rightarrow \frac{n(n+1)}{2}=55$

$\Rightarrow n(n+1)=110=10\times 11 \Rightarrow n=10$

یعنی دونده تا ایستگاه ۱۰ اُم دویده است و مسافت طی‌شده توسط او برابر است با:

برای ایستگاه اول $=2\times 2$

برای ایستگاه دوم $=4\times 2$ (+۴)

برای ایستگاه سوم $=6\times 2$ (+۴)

$\vdots$

$\xrightarrow[a_1=4,d=4]{\text{دنبالهٔ حسابی}} S_{10}=\frac{10}{2}(\overbrace{2(4)+9(4)}^{11\times 4})=5\times 44=220$ متر

درسنامه ۲

مجموع جملات دنبالهٔ هندسی

یادآوری از دنباله‌های هندسی

جملات دنباله‌های هندسی از ضرب عددی ثابت در جملهٔ قبل آن به‌دست می‌آیند:

$a_1 \xrightarrow{\times q} \underbrace{a_1q}_{a_2} \xrightarrow{\times q} \underbrace{a_1q^2}_{a_3} \xrightarrow{\times q} \underbrace{a_1q^3}_{a_4},\cdots \Rightarrow \boxed{a_n=a_1q^{n-1}}$

(a_n جملهٔ عمومی(n اُم) و q قدرنسبت دنباله می‌باشد.)

بنابراین نسبت هر دو جملهٔ متوالی در دنبالهٔ هندسی، برابر با قدرنسبت دنباله است:

$\frac{a_n}{a_{n-1}}=q \Rightarrow \boxed{\frac{a_n}{a_m}=q^{n-m}}$

نکته

اگر a، b و c سه جملهٔ متوالی از دنبالهٔ هندسی باشند، b را واسطهٔ هندسی a و c می‌گویند و داریم:

$b^2=ac$ یا $b=\pm\sqrt{ac}$

مشاوره و راهنمای انتخاب بهترین منابع کنکور : 021-28425210

telegram.me/medabook_com www.medabook.com

درسنامه ۲

مثال مقادیر x و y را در دنبالهٔ هندسی $۴, x, y, \frac{۱}{۲}, \cdots$ بیابید.

پاسخ: روش اول:

$$۴, x, y, \frac{۱}{۲}, \cdots \xrightarrow{\text{دنبالهٔ هندسی}} \begin{cases} x^۲ = ۴y \Rightarrow y = \frac{x^۲}{۴} \\ y^۲ = \frac{۱}{۲}x \end{cases}$$

$$\Rightarrow \left(\frac{x^۲}{۴}\right)^۲ = \frac{x}{۲} \Rightarrow \frac{x^۴}{۱۶} = \frac{x}{۲} \Rightarrow ۲x^۴ = ۱۶x \xrightarrow{\div(۲x)} x^۳ = ۸ \Rightarrow x = ۲ \xrightarrow{y=\frac{x^۲}{۴}} y = \frac{۴}{۴} = ۱$$

روش دوم:

$$q^{۴-۱} = \frac{a_۴}{a_۱} \Rightarrow q^۳ = \frac{\frac{۱}{۲}}{۴} = \frac{۱}{۸} = \left(\frac{۱}{۲}\right)^۳ \Rightarrow q = \frac{۱}{۲} \Rightarrow \begin{cases} x = ۴\left(\frac{۱}{۲}\right) = ۲ \\ y = x\left(\frac{۱}{۲}\right) = ۲\left(\frac{۱}{۲}\right) = ۱ \end{cases}$$

مجموع جملات دنباله‌های هندسی

اگر $S_n = a_۱ + a_۲ + \cdots + a_n$، مجموع n جملهٔ اول یک دنبالهٔ هندسی باشد، به کمک روش زیر می‌توان فرمولی برای S_n یافت:

$$S_n = a_۱ + a_۱q + a_۱q^۲ + \cdots + a_۱q^{n-۱} \quad (*)$$

طرفین رابطهٔ بالا را در q ضرب می‌کنیم:

$$qS_n = a_۱q + a_۱q^۲ + a_۱q^۳ + \cdots + a_۱q^{n-۱} + a_۱q^n \quad (**)$$

حالا اگر طرفین دو رابطه را از هم کم کنیم، داریم:

$$\xrightarrow{(**)-(*)} qS_n - S_n = (a_۱q + a_۱q^۲ + \cdots + a_۱q^{n-۱} + a_۱q^n) - (a_۱ + a_۱q + \cdots + a_۱q^{n-۱})$$

$$\Rightarrow \underbrace{qS_n - S_n}_{\text{فاکتور از } S_n} = \underbrace{a_۱q^n - a_۱}_{\text{فاکتور از } a_۱} \Rightarrow S_n(q-۱) = a_۱(q^n - ۱) \Rightarrow \boxed{S_n = \frac{a_۱(q^n-۱)}{q-۱}}$$

مثال مجموع ۱۰ جملهٔ اول دنبالهٔ هندسی $۱, ۲, \cdots, \frac{۱}{۲}$، چند برابر جملهٔ اول آن است؟

پاسخ:

$$\underbrace{\frac{۱}{۲}, ۱, ۲}_{\times۲ \quad \times۲}, \cdots \Rightarrow q = ۲ \text{ ، } a_۱ = \frac{۱}{۲} \text{ دنبالهٔ هندسی با}$$

$$\Rightarrow S_{۱۰} = \frac{a_۱(q^{۱۰}-۱)}{q-۱} = \frac{\frac{۱}{۲}(۲^{۱۰}-۱)}{۲-۱} = \frac{۱}{۲}(۱۰۲۴-۱) = \frac{۱۰۲۳}{۲} \Rightarrow \frac{S_{۱۰}}{a_۱} = \frac{\frac{۱۰۲۳}{۲}}{\frac{۱}{۲}} = ۱۰۲۳$$

مثال در یک دنبالهٔ هندسی، مجموع ۱۰ جملهٔ اول برابر ۶۶ و مجموع ۵ جملهٔ اول برابر ۶۴ است. قدرنسبت دنباله را بیابید.

پاسخ:

$$\begin{cases} S_{۱۰} = \frac{a_۱(q^{۱۰}-۱)}{q-۱} = ۶۶ \\ S_۵ = \frac{a_۱(q^۵-۱)}{q-۱} = ۶۴ \end{cases} \xrightarrow{\text{دو رابطه را بر هم تقسیم می‌کنیم.}} \frac{S_{۱۰}}{S_۵} = \frac{\frac{a_۱(q^{۱۰}-۱)}{q-۱}}{\frac{a_۱(q^۵-۱)}{q-۱}} = \frac{۶۶}{۶۴}$$

$$\xrightarrow{\text{دور در دور، نزدیک در نزدیک}} \frac{a_۱(q^{۱۰}-۱)(q-۱)}{a_۱(q^۵-۱)(q-۱)} = \frac{۶۶}{۶۴} \xrightarrow{\text{اتحاد مزدوج}} \frac{(q^۵-۱)(q^۵+۱)}{q^۵-۱} = \frac{۶۶}{۶۴}$$

$$\Rightarrow q^۵ + ۱ = \frac{۳۳}{۳۲} \Rightarrow q^۵ = \frac{۳۳}{۳۲} - ۱ \Rightarrow q^۵ = \frac{۱}{۳۲} = \left(\frac{۱}{۲}\right)^۵ \Rightarrow q = \frac{۱}{۲}$$

مشاوره و راهنمای انتخاب بهترین منابع کنکور : 021-28425210

telegram.me/medabook_com www.medabook.com

درسنامه ۲

نکته

برای مجموع n جملهٔ اول دنبالهٔ هندسی، یعنی S_n، نیز رابطه‌های روبه‌رو برقرار است: ۲) $S_n - S_{n-1} = a_n$ ۱) $S_1 = a_1$

مثال

اگر مجموع n جملهٔ اول یک دنبالهٔ هندسی برابر با $S_n = 2^n - 1$ باشد، جملهٔ اول و قدرنسبت این دنباله را بیابید.

پاسخ:

$a_1 = S_1 = 2^1 - 1 = 1$

روش اول:

$a_n = S_n - S_{n-1} = (2^n - 1) - (2^{(n-1)} - 1) = 2^n - 2^{n-1} = 2^{n-1}\underbrace{(2-1)}_{1} = 2^{n-1}$

$a_n = a_1 q^{n-1} \xrightarrow[a_n = 2^{n-1}]{a_1 = 1} 2^{n-1} = 1 \times q^{n-1} \Rightarrow q = 2$

روش دوم:

$S_n = 2^n - 1 \begin{cases} \rightarrow S_1 = a_1 = 2 - 1 = 1 \\ \rightarrow S_2 = a_1 + a_2 = 2^2 - 1 = 3 \end{cases} \Rightarrow 1 + a_2 = 3 \Rightarrow a_2 = 2 \Rightarrow q = \frac{a_2}{a_1} = \frac{2}{1} = 2$

مثال

اگر هر بار وسط اضلاع مثلث متساوی‌الاضلاع روبه‌رو را به هم وصل کنیم، مساحت قسمت رنگی چقدر است؟

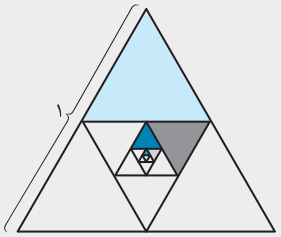

پاسخ: مساحت مثلث متساوی‌الاضلاع به ضلع ۱ برابر است با: $S = \frac{\sqrt{3}}{4} \times 1^2 = \frac{\sqrt{3}}{4}$

در هر مرحله مساحت رنگ‌شده $\frac{1}{4}$ مساحت مثلث ایجادشده است و مساحت مثلث ایجادشده $\frac{1}{4}$ مساحت مثلث قبلی است:

$a_1 = \frac{1}{4}S = \frac{1}{4}\left(\frac{\sqrt{3}}{4}\right)$

$a_2 = \frac{1}{4}\left(\frac{1}{4}S\right) = \left(\frac{1}{4}\right)^2\left(\frac{\sqrt{3}}{4}\right)$

$a_3 = \frac{1}{4}\left(\frac{1}{4}\left(\frac{1}{4}S\right)\right) = \left(\frac{1}{4}\right)^3\left(\frac{\sqrt{3}}{4}\right)$

$\vdots$

بنابراین با دنباله‌ای هندسی با قدرنسبت $\left(\frac{1}{4}\right)$ مواجه‌ایم و مساحت قسمت رنگی ایجادشده برابر است با:

$$S_5 = a_1 + a_2 + \cdots + a_5 = \frac{a_1(q^5 - 1)}{q - 1} = \frac{\frac{1}{4}\left(\frac{\sqrt{3}}{4}\right)\left(\left(\frac{1}{4}\right)^5 - 1\right)}{\left(\frac{1}{4} - 1\right)} = \frac{\frac{\sqrt{3}}{4^2} \times \frac{1 - \overset{1024}{\overbrace{4^5}}}{4^5}}{-\frac{3}{4}} = \frac{\overset{341}{\cancel{-1023}} \times \sqrt{3}}{-4^6 \times \cancel{3}} = \frac{341\sqrt{3}}{4096}$$

– در هر یک از دنباله‌های هندسی زیر، مجموع ۱۰ جملهٔ اول را بیابید.

۲۱. $\frac{1}{3}, \frac{1}{9}, \frac{1}{27}, \ldots$ (نهایی- خرداد ۹۱، با کمی تغییر)

۲۲. $\frac{1}{5}, \frac{1}{20}, \frac{1}{80}, \ldots$ (نهایی- شهریور ۹۵، با کمی تغییر)

۲۳. $\frac{1}{8}, \frac{-1}{4}, \frac{1}{2}, \ldots$

– حاصل عبارت‌های زیر را به‌دست آورید.

۲۴. $\frac{1}{2} + 1 + 2 + 4 + \cdots + 2048$

۲۵. $-1 - 3 - 9 \cdots - 729$

۲۶. $1 + \frac{1}{3} - \frac{1}{2} + \frac{1}{9} - \frac{1}{4} + \cdots + \frac{1}{729} - \frac{1}{128}$

مشاوره و راهنمای انتخاب بهترین منابع کنکور : 021-28425210

telegram.me/medabook_com www.medabook.com

۲۷. مجموع چند جملهٔ اول از دنبالهٔ هندسی ۶۰-۱۲۰،۲۴۰،۰۰۰ برابر ۱۲۶- خواهد شد؟ (نهایی- خرداد ۹۰)

۲۸. در یک دنبالهٔ اعداد، هر جمله دو برابر جملهٔ قبلی آن است. اگر مجموع ۵ جملهٔ اول آن برابر ۴۶/۵ باشد، جملهٔ اول دنباله را بیابید.

۲۹. در یک دنبالهٔ هندسی جملهٔ پانزدهم ۸ برابر جملهٔ دوازدهم است. مجموع ۸ جملهٔ اول این دنباله، چند برابر جملهٔ اول آن است؟

۳۰. مجموع ۱۲ جملهٔ اول یک دنبالهٔ هندسی ۹ برابر مجموع ۶ جملهٔ اول آن است. قدرنسبت را بیابید.

۳۱. مجموع ۱۰ جملهٔ دوم دنبالهٔ هندسی ۱۰،۲۰۴،۰۰۰ چند برابر مجموع ۱۰ جملهٔ اول آن است؟

۳۲. جملهٔ عمومی یک دنبالهٔ هندسی به‌صورت $a_n = 3\times 2^n$ است، (مشابه تمرین ۵ صفحهٔ ۶ کتاب درسی)

آ) مجموع ۵ جملهٔ اول آن را بیابید. ب) مجموع چند جمله از این دنباله برابر با ۳۰۶۶ است؟

۳۳. در یک دنبالهٔ هندسی با جملهٔ اول a_1 و قدرنسبت q، مجموع ۱۰ جملهٔ اول S می‌باشد،

آ) اگر جملهٔ اول را دو برابر کنیم، مجموع ۱۰ جملهٔ اول چند برابر می‌شود؟

ب) اگر قدرنسبت را به توان ۲ برسانیم، مجموع ۱۰ جملهٔ اول را بر حسب S و q بیابید.

– درستی هر یک از تساوی‌های زیر را اثبات کنید. (مشابه تمرین ۷ صفحهٔ ۶ کتاب درسی)

۳۴. $1+a+a^2+\cdots+a^{n-1}=\dfrac{1-a^n}{1-a}$

۳۵. $a^n+1=(a+1)(a^{n-1}-a^{n-2}+\cdots-a+1)$; (n فرد)

۳۶. $x^n-y^n=(x-y)(x^{n-1}+x^{n-2}y+\cdots+xy^{n-2}+y^{n-1})$

۳۷. اگر ضلع مربع ۱ واحد باشد و در هر مرحله وسط اضلاع مربع را به هم وصل کنیم تا مربع جدیدی حاصل شود، مساحت قسمت رنگی چقدر است؟

۳۸. طول ضلع مربعی ۱ متر است. ابتدا نیمی از مساحت آن را رنگ می‌کنیم. سپس نیمی از مساحت باقی‌مانده را رنگ می‌کنیم و به همین ترتیب در هر مرحله نیمی از مساحت باقی‌مانده از مرحلهٔ قبل را رنگ می‌کنیم. پس از چند مرحله، حداقل ۹۹ درصد از سطح مربع رنگ شده است؟ (تمرین ۶ صفحهٔ ۶ کتاب درسی و نهایی- دی ۹۴)

۳۹. برای از بین بردن ذرات معلق در یک محلول، آن را از صافی‌هایی عبور می‌دهیم. اگر در اثر عبور از هر صافی تعداد ذرات معلق موجود در محلول نصف شود، حداقل چند صافی نیاز است تا ذرات معلق موجود در محلول، حداقل ۹۶ درصد کاهش یابد؟ (مشابه مثال صفحهٔ ۵ کتاب درسی و نهایی- مدارس تهران)

۴۰. یک مثلث با محیط p را در نظر بگیرید و وسط اضلاع آن را به هم وصل کنید تا مثلث کوچک‌تری ایجاد شود. این عمل را به‌طور متوالی انجام دهید. مجموع محیط مثلث‌های به‌دست‌آمده از مثلث اول تا مثلث مرحلهٔ دهم، چند برابر p است؟ (نهایی- خرداد ۹۴، با کمی تغییر)

۴۱. توپی در اختیار داریم که از هر ارتفاعی زمین بخورد، پس از زمین خوردن به اندازهٔ $\frac{1}{3}$ ارتفاع اولیه‌اش بالا می‌رود. فرض کنید این توپ را به‌طور قائم از زمین به هوا پرتاب کرده‌ایم تا به ارتفاع ۹ متری برسد. این توپ پس از شروع پرتاب تا ۶اُمین برخورد به زمین در کل مسافت عمودی طی‌شده چه‌قدر است؟ (نهایی- خرداد ۹۰، با کمی تغییر)

۴۲. علی می‌خواهد پول خود را پس‌انداز کند. او روز اول ۳۰۰۰۰ تومان پس‌انداز می‌کند و روزهای دیگر میزان آن را ۱۰ درصد نسبت به روز قبل افزایش می‌دهد، پس از یک هفته چند تومان پس‌انداز می‌کند؟ $((1/1)^7 \simeq 1/95)$

۴۳. کودکی سنگی را بر روی سطح آب پرتاب می‌کند. این سنگ در مسیر نیم‌دایره‌هایی روی سطح آب حرکت می‌کند. اگر اولین برخورد سنگ با سطح آب ۱ متر جلوتر از کودک باشد و پس از هر برخورد سنگ با آب، قطر نیم‌دایره ۵۰ درصد کاهش یابد، پس از ۵اُمین برخورد با سطح آب:

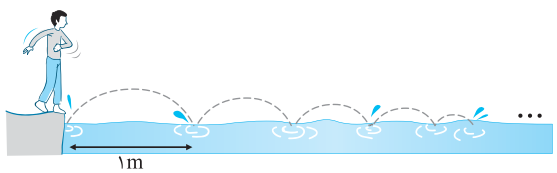

آ) فاصلهٔ سنگ تا کودک چقدر است؟ (تا دو رقم اعشار) ب) سنگ چه مسافتی را پیموده است؟ $(\pi \simeq 3/2)$

مشاوره و راهنمای انتخاب بهترین منابع کنکور : 021-28425210

telegram.me/medabook_com www.medabook.com

۴۴. پدری برای کادوی سالگرد تولد فرزندش، سال اول ۱ سکه، سال دوم ۲ سکه، سال سوم ۴ سکه و به همین ترتیب هر سال دو برابر سال قبل سکه برای او پس‌انداز می‌کند. اگر بهای هر سکه ۱۰۰۰۰ تومان باشد، وقتی این فرزند به ۱۰ سالگی می‌رسد، چند سکه کادو گرفته و بهای کل آن‌ها چقدر است؟ (مشابه کار در کلاس صفحهٔ ۶ کتاب درسی)

۴۵. در مسئلهٔ مخترع شطرنج، اگر وزن هر دانهٔ گندم ۱ گرم باشد، نشان دهید این مخترع بیش از ۱۰۰۰ میلیارد تن گندم جایزه دریافت خواهد کرد.

پاسخ‌های تشریحی

۲۱

$\underbrace{\frac{1}{3}, \frac{1}{9}, \frac{1}{27}, \cdots}_{\times\frac{1}{3}\ \times\frac{1}{3}}$

دنبالهٔ هندسی با $a_1=\frac{1}{3}$ و $q=\frac{1}{3}$

$$\Rightarrow S_{10}=\frac{a_1(q^{10}-1)}{q-1}=\frac{\frac{1}{3}\left(\left(\frac{1}{3}\right)^{10}-1\right)}{\frac{1}{3}-1}=\frac{\frac{1}{3}\left(\frac{1}{3^{10}}-1\right)}{-\frac{2}{3}}$$

$$=\frac{\frac{1}{3}\left(\frac{1-3^{10}}{3^{10}}\right)}{-\frac{2}{3}}=\frac{1-3^{10}}{3^{11}}=-\frac{3(1-3^{10})}{2\times 3^{11}}=\frac{3^{10}-1}{2\times 3^{10}}$$

۲۲

$\underbrace{\frac{1}{5}, \frac{1}{20}, \frac{1}{80}, \cdots}_{\times\frac{1}{4}\ \times\frac{1}{4}}$

دنبالهٔ هندسی با $a_1=\frac{1}{5}$ و $q=\frac{1}{4}$

$$S_{10}=\frac{a_1(q^{10}-1)}{q-1}\ \underset{q=\frac{1}{4}}{\overset{a_1=\frac{1}{5}}{=}}\ \frac{\frac{1}{5}\left(\left(\frac{1}{4}\right)^{10}-1\right)}{\frac{1}{4}-1}=\frac{\frac{1}{5}\left(\frac{1}{4^{10}}-1\right)}{\frac{-3}{4}}$$

$$=\frac{\frac{1}{5}\left(\frac{1-4^{10}}{4^{10}}\right)}{-\frac{3}{4}}=\frac{(4^{10}-1)}{15\times 4^9}$$

۲۳

$\underbrace{\frac{1}{8}, \frac{-1}{4}, \frac{1}{2}, \cdots}_{\times(-2)\ \times(-2)}$

دنبالهٔ هندسی با $a_1=\frac{1}{8}$ و $q=-2$

$$S_{10}=\frac{a_1(q^{10}-1)}{q-1}\ \underset{q=(-2)}{\overset{a_1=\frac{1}{8}}{=}}\ \frac{\frac{1}{8}((-2)^{10}-1)}{-2-1}=\frac{\frac{1}{8}(2^{10}-1)}{-3}$$

$$=\frac{1024-1}{-3\times 8}=-\frac{1023}{3\times 8}=\frac{-341}{8}$$

۲۴

$\underbrace{\frac{1}{2}, 1, 2, 4, \cdots, 2048}_{\times 2\ \times 2\ \times 2}$

دنبالهٔ هندسی با $a_1=\frac{1}{2}$ و $q=2$

$$a_n=2048\Rightarrow a_1q^{n-1}=2048\Rightarrow\frac{1}{2}\times 2^{n-1}=2048\Rightarrow 2^{n-2}=2^{11}$$

$$\Rightarrow n-2=11\Rightarrow n=13$$

$$\Rightarrow\frac{1}{2}+1+2+4+\cdots+2048=\frac{a_1(q^{13}-1)}{q-1}=\frac{\frac{1}{2}(2^{13}-1)}{\underbrace{2-1}_{1}}=\frac{2^{13}-1}{2}$$

$$=\frac{8192-1}{2}=\frac{8191}{2}=4095/5$$

۲۵ دنبالهٔ هندسی با $a_1=-1$ و $q=3$

$$-1,-3,-9,\cdots,-729\Rightarrow q=3$$

$$a_n=-729\Rightarrow a_1q^{n-1}=-729\Rightarrow(-1)3^{n-1}=-729\Rightarrow 3^{n-1}=3^6$$

$$\Rightarrow n-1=6\Rightarrow n=7$$

$$\Rightarrow -1-3-9-\cdots-729=\frac{a_1(q^7-1)}{q-1}=\frac{(-1)(3^7-1)}{3-1}$$

$$=-\frac{1}{2}(2187-1)=-\frac{2186}{2}=-1093$$

۲۶

$$1+\frac{1}{3}-\frac{1}{2}+\frac{1}{9}-\frac{1}{4}+\cdots+\frac{1}{729}-\frac{1}{128}$$

$$=\underbrace{\left(1+\frac{1}{3}+\frac{1}{9}+\cdots+\frac{1}{729}\right)}_{q=\frac{1}{3},n=7}-\underbrace{\left(\frac{1}{2}+\frac{1}{4}+\cdots+\frac{1}{128}\right)}_{q=\frac{1}{2},n=7}$$

$$=\frac{1\left(1-\left(\frac{1}{3}\right)^7\right)}{1-\frac{1}{3}}-\frac{\frac{1}{2}\left(1-\left(\frac{1}{2}\right)^7\right)}{1-\frac{1}{2}}=\frac{1-\frac{1}{3^7}}{\frac{2}{3}}-\frac{\frac{1}{2}\left(1-\frac{1}{2^7}\right)}{\frac{1}{2}}$$

$$=\frac{3-\frac{1}{3^6}}{2}-\left(1-\frac{1}{2^7}\right)=\frac{3^7-1}{2\times 3^6}-\frac{2^7-1}{2^7}$$

۲۷

$\underbrace{6, -12, 24, \cdots}_{\times(-2)\ \times(-2)}\Rightarrow q=-2\ ,\ a_1=6$

$$S_n=a_1+a_2+\cdots+a_n=-126\Rightarrow\frac{6(1-(-2)^n)}{1-(-2)}=-126$$

$$\Rightarrow\frac{\overset{2}{\cancel{6}}(1-(-2)^n)}{\cancel{3}}=-126\Rightarrow 1-(-2)^n=\frac{-126}{2}=-63$$

$$\Rightarrow(-2)^n=1-(-63)\Rightarrow(-2)^n=64\Rightarrow n=6$$

مشاوره و راهنمای انتخاب بهترین منابع کنکور : 021-28425210

telegram.me/medabook_com www.medabook.com

۲۸ با یک دنبالهٔ هندسی با قدرنسبت $q=۲$ سر و کار داریم، بنابراین:

$$S_۵=۴۶/۵ \Rightarrow \frac{a_۱(q^۵-۱)}{q-۱}=۴۶/۵ \xrightarrow{q=۲} \frac{a_۱(۲^۵-۱)}{۲-۱}=۴۶/۵$$

$$\Rightarrow a_۱(۳۲-۱)=۴۶/۵ \Rightarrow ۳۱a_۱=۴۶/۵$$

$$\Rightarrow a_۱=\frac{۴۶/۵}{۳۱}=\frac{\frac{۹۳}{۲}}{۳۱}=\frac{۹۳^{۳}}{۲\times ۳۱_{۱}}=\frac{۳}{۲}$$

۲۹

$$a_{۱۵}=۸a_{۱۲} \xrightarrow{a_n=a_۱q^{n-۱}} a_۱q^{۱۴}=۸a_۱q^{۱۱} \xrightarrow[\div a_۱]{a_۱\neq ۰} q^{۱۴}=۸q^{۱۱}$$

$$\Rightarrow \frac{q^{۱۴}}{q^{۱۱}}=۸ \Rightarrow q^۳=۸ \Rightarrow q^۳=۲^۳ \Rightarrow q=۲$$

$$S_۸=\frac{a_۱(۱-q^۸)}{۱-q}=\frac{a_۱(۱-۲^۸)}{۱-۲}=-a_۱(۱-۲۵۶)$$

$$=-(-۲۵۵)a_۱=۲۵۵a_۱$$

۳۰

$$S_{۱۲}=۹S_۶ \Rightarrow \frac{a_۱(۱-q^{۱۲})}{۱-q}=۹\frac{a_۱(۱-q^۶)}{۱-q}$$

$$\Rightarrow ۱-q^{۱۲}=۹(۱-q^۶) \xrightarrow{\text{اتحاد مزدوج}} (۱-q^۶)(۱+q^۶)=۹(۱-q^۶)$$

$$\Rightarrow ۱+q^۶=۹ \Rightarrow q^۶=۸ \Rightarrow q=\pm\sqrt{۲}$$

۳۱

$$\underbrace{۱ \overset{\times ۲}{,} ۲ \overset{\times ۲}{,} ۴ , \cdots}_{\text{دنبالهٔ هندسی با } a_۱=۱ \text{ و } q=۲}$$

$$\text{مجموع ۱۰ جملهٔ اول}=S_{۱۰}=\frac{a_۱(q^{۱۰}-۱)}{q-۱}=\frac{۱(۲^{۱۰}-۱)}{۲-۱}$$

$$=۲^{۱۰}-۱=۱۰۲۴-۱=۱۰۲۳$$

روش اول: ۱۰ جملهٔ دوم از $a_{۱۱}$ شروع و به $a_{۲۰}$ ختم می‌گردد، پس داریم:

$$\text{مجموع ۱۰ جملهٔ دوم}=a_{۱۱}+a_{۱۲}+\cdots+a_{۲۰} \overset{q=۲}{=} \frac{a_{۱۱}(۲^{۱۰}-۱)}{۲-۱}$$

$$=\frac{a_۱q^{۱۰}(۱۰۲۴-۱)}{۱}=۱\times ۲^{۱۰}(۱۰۲۳)=۱۰۲۴\times ۱۰۲۳$$

روش دوم:

$$\text{مجموع ۲۰ جملهٔ اول}=S_{۲۰}=\frac{a_۱(q^{۲۰}-۱)}{q-۱}=\frac{۱(۲^{۲۰}-۱)}{۲-۱}=۲^{۲۰}-۱$$

$$\text{مجموع ۱۰ جملهٔ دوم}=\text{مجموع ۲۰ جملهٔ اول}-\text{مجموع ۱۰ جملهٔ اول}$$

$$=(۲^{۲۰}-۱)-(۲^{۱۰}-۱)=۲^{۲۰}-۲^{۱۰}=۲^{۱۰}(۲^{۱۰}-۱)=۱۰۲۴\times ۱۰۲۳$$

بنابراین:

$$\Rightarrow \frac{\text{مجموع ۱۰ جملهٔ دوم}}{\text{مجموع ۱۰ جملهٔ اول}}=\frac{۱۰۲۴\times ۱۰۲۳}{۱۰۲۳}=۱۰۲۴$$

---

۳۲ آ)

$$a_۱=۶ \text{ ، } a_۲=۳\times ۴=۱۲ \Rightarrow q=\frac{a_۲}{a_۱}=۲$$

$$S_۵=\frac{۶(۱-۲^۵)}{۱-۲}=\frac{۶(۱-۳۲)}{-۱}=(-۶)(-۳۱)=۶\times ۳۱=۱۸۶$$

ب)

$$S_n=۳۰۶۶ \Rightarrow \frac{۶(۱-۲^n)}{۱-۲}=۳۰۶۶ \Rightarrow ۶(۲^n-۱)=۳۰۶۶$$

$$\Rightarrow ۲^n-۱=\frac{۳۰۶۶}{۶}=۵۱۱ \Rightarrow ۲^n=۵۱۲=۲^۹ \Rightarrow n=۹$$

۳۳

$$S=\frac{a_۱(۱-q^{۱۰})}{۱-q}$$

آ)

$$S_{۱۰}=\frac{(۲a_۱)(۱-q^{۱۰})}{۱-q}=۲\frac{a_۱(۱-q^{۱۰})}{۱-q}=۲S \Rightarrow$$ ۲ برابر می‌شود.

ب)

$$S_{۱۰}=\frac{a_۱(۱-(q^۲)^{۱۰})}{۱-q^۲}=\frac{a_۱(۱-(q^{۱۰})^۲)}{۱-q^۲}$$

$$\overset{\text{اتحاد مزدوج}}{=} \underbrace{\frac{a_۱(۱-q^{۱۰})}{(۱-q)}}_{S}\frac{(۱+q^{۱۰})}{(۱+q)}=\frac{۱+q^{۱۰}}{۱+q}S$$

۳۴

$$\overbrace{۱+a+a^۲+\cdots+a^{n-۱}}^{\text{جمله } n} \overset{\text{دنبالهٔ هندسی}}{\underset{q=a}{=}} \frac{a_۱(a^n-۱)}{a-۱}$$

($\times a$ ، $\times a$)

$$=\frac{۱(a^n-۱)}{a-۱}=\frac{۱-a^n}{۱-a}$$

---

۳۵ **روش اول:** با توجه به درستی تساوی مسئلهٔ قبل کافی است به جای a، $(-a)$ قرار دهیم:

$$۱+(-a)+(-a)^۲+\cdots+(-a)^{n-۲}+(-a)^{n-۱}=\frac{۱-(-a)^n}{۱-(-a)}$$

$$\xrightarrow{n \text{ فرد}} ۱-a+a^۲+\cdots-a^{n-۲}+a^{n-۱}=\frac{۱+a^n}{۱+a}$$

$$\xrightarrow{\text{طرفین وسطین}} a^n+۱=(a+۱)(a^{n-۱}-a^{n-۲}+\cdots+a^۲-a+۱)$$

روش دوم:

$$\underbrace{۱-a+a^۲+\cdots-a^{n-۲}+a^{n-۱}}_{\times(-a)\ \times(-a)\qquad \times(-a)} \overset{\text{دنبالهٔ هندسی}}{\underset{q=(-a)}{=}} \frac{۱(۱-(-a)^n)}{۱-(-a)}$$

$$\overset{n \text{ فرد}}{=} \frac{۱+a^n}{۱+a}$$

$$\xrightarrow{\text{طرفین وسطین}} a^n+۱=(a+۱)(۱-a+a^۲+\cdots-a^{n-۲}+a^{n-۱})$$

مشاوره و راهنمای انتخاب بهترین منابع کنکور : 021-28425210

telegram.me/medabook_com www.medabook.com

۳۶

$$x^{n-1}+x^{n-2}y+\cdots+xy^{n-2}+y^{n-1}$$

$$\xrightarrow{\times\frac{y}{x}}\ \underset{q=\frac{y}{x}}{\text{دنبالهٔ هندسی}}\ \frac{x^{n-1}\left(\left(\frac{y}{x}\right)^n-1\right)}{\frac{y}{x}-1}=\frac{x^{n-1}\left(\frac{y^n-x^n}{x^n}\right)}{\frac{y-x}{x}}$$

$$=\frac{\frac{y^n-x^n}{x}}{\frac{y-x}{x}}\ \underset{\text{نزدیک در نزدیک}}{\text{دور در دور}}\ \frac{x(y^n-x^n)}{x(y-x)}=\frac{x^n-y^n}{x-y}$$

$$\xrightarrow{\text{طرفین وسطین}} x^n-y^n=(x-y)(x^{n-1}+x^{n-2}y+\cdots+y^{n-1})$$

۳۷ در مربع اول (بزرگ‌ترین مربع) مساحت قسمت رنگی $\frac{1}{8}$ مساحت مربع است. به همین ترتیب در هر مرحله، مساحت قسمت رنگی از هر مربع، $\frac{1}{8}$ مساحت همان مربع است.

بنابراین اگر a_n مساحت مثلث رنگی در مربع nام باشد، چون مساحت مربع‌ها هر بار نصف می‌گردد، داریم:

$$\begin{cases} a_1=\frac{1}{8} & (1)\\ a_2=\frac{1}{8}\left(\frac{1}{2}\times 1\right)\\ a_3=\frac{1}{8}\left(\frac{1}{2}\times\frac{1}{2}\times 1\right)\\ \vdots \end{cases}$$

$\Rightarrow$ دنبالهٔ هندسی با $a_1=\frac{1}{8}$ و قدرنسبت $q=\frac{1}{2}$

$$\Rightarrow \text{مساحت رنگی}=S_7=a_1+a_2+\cdots+a_7=\frac{a_1(q^7-1)}{q-1}$$

$$=\frac{\frac{1}{8}\left(\left(\frac{1}{2}\right)^7-1\right)}{\frac{1}{2}-1}=\frac{\frac{1}{8}\left(\frac{1}{2^7}-1\right)}{-\frac{1}{2}}=-\frac{2}{8}\left(\frac{1-2^7}{2^7}\right)$$

$$=-\frac{1}{4}\left(\frac{1-128}{128}\right)=-\frac{1}{4}\left(\frac{-127}{128}\right)=\frac{127}{4\times 128}=\frac{127}{512}$$

۳۸



$$a_1=\frac{1}{2}\xrightarrow{\text{باقی‌مانده}}\frac{1}{2}$$

$$a_2=\frac{1}{2}\times\frac{1}{2}=\left(\frac{1}{2}\right)^2\xrightarrow{\text{باقی‌مانده}}\frac{1}{2}\times\frac{1}{2}$$

$$a_3=\frac{1}{2}\times\frac{1}{2}\times\frac{1}{2}=\left(\frac{1}{2}\right)^3$$

$$\vdots$$

$$a_n=\left(\frac{1}{2}\right)^n$$

$S_n=\frac{1}{2}+\left(\frac{1}{2}\right)^2+\cdots+\left(\frac{1}{2}\right)^n$ مجموع مساحت‌های رنگ‌شده در n مرحله

$$\underset{q=\frac{1}{2}}{a_1=\frac{1}{2}}\ \frac{a_1(q^n-1)}{q-1}=\frac{\frac{1}{2}\left(\left(\frac{1}{2}\right)^n-1\right)}{\frac{1}{2}-1}=\frac{\frac{1}{2}\left(\frac{1}{2^n}-1\right)}{-\frac{1}{2}}=1-\frac{1}{2^n}$$

$$S_n\geq\frac{99}{100}\times 1\Rightarrow 1-\frac{1}{2^n}\geq\frac{99}{100}\Rightarrow\frac{1}{2^n}\leq 1-\frac{99}{100}=\frac{1}{100}$$

$$\Rightarrow 2^n\geq 100\Rightarrow n\geq 7$$

پس از ۷ مرحله، حداقل ۹۹ درصد از سطح مربع رنگ شده است.

۳۹ میزان کاهش ذرات در هر مرحله به‌صورت زیر است:

مرحلهٔ اول: $\frac{1}{2}$، مرحلهٔ دوم: $\frac{1}{2}\times\frac{1}{2}$، مرحلهٔ سوم: $\frac{1}{2}\times\frac{1}{2}\times\frac{1}{2}$، ...

$$\Rightarrow \text{مرحلهٔ } n\text{ام}=\left(\frac{1}{2}\right)^n$$

بنابراین پس از n مرحله میزان کاهش ذرات برابر است با:

$$S_n=\frac{1}{2}+\left(\frac{1}{2}\right)^2+\left(\frac{1}{2}\right)^3+\cdots+\left(\frac{1}{2}\right)^n\ \underset{q=\frac{1}{2}}{a_1=\frac{1}{2}}\ \frac{\frac{1}{2}\left(1-\left(\frac{1}{2}\right)^n\right)}{1-\frac{1}{2}}$$

$$=1-\left(\frac{1}{2}\right)^n$$

$$S_n>\frac{96}{100}\Rightarrow 1-\left(\frac{1}{2}\right)^n\geq\frac{96}{100}\Rightarrow\left(\frac{1}{2}\right)^n\leq\frac{4}{100}=\frac{1}{25}$$

$$\Rightarrow\frac{1}{2^n}\leq\frac{1}{25}\Rightarrow 2^n\geq 25\Rightarrow n\geq 5$$

۴۰ بنابه قضیهٔ تالس، در هر بار طول اضلاع مثلث ایجادشده نصف طول اضلاع مثلث قبل است، بنابراین:

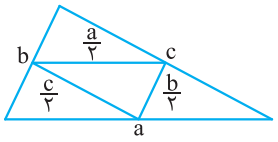

محیط مثلث اول: $a_1=p$

محیط مثلث دوم: $a_2=\frac{1}{2}p$

محیط مثلث سوم: $a_3=\frac{1}{2}\left(\frac{1}{2}p\right)=\left(\frac{1}{2}\right)^2p$

$$\vdots$$

محیط مثلث nاُم: $a_n=\left(\frac{1}{2}\right)^{n-1}p$

$$S_{10}=p+\frac{1}{2}p+\cdots+\left(\frac{1}{2}\right)^9p\ \underset{q=\frac{1}{2}}{a_1=p}\ \frac{p\left(1-\left(\frac{1}{2}\right)^{10}\right)}{1-\frac{1}{2}}$$

$$=2p\left(1-\frac{1}{2^{10}}\right)$$

$$S_{10}=2p\left(\frac{2^{10}-1}{2^{10}}\right)=\frac{2^{10}-1}{2^9}p=\frac{1024-1}{512}p=\frac{1023}{512}p$$

مشاوره و راهنمای انتخاب بهترین منابع کنکور : 021-28425210

telegram.me/medabook_com www.medabook.com

۴۱ ارتفاع‌هایی که توپ پس از هر بار زمین خوردن بالا می‌آید، تشکیل یک دنبالهٔ هندسی با قدرنسبت $q=\frac{۱}{۳}$ می‌دهد:

$$\begin{cases} l_۱ = ۹ \\ l_۲ = \frac{۱}{۳} l_۱ \\ l_۳ = \frac{۱}{۳} l_۲ = (\frac{۱}{۳})^۲ l_۱ \\ \vdots \\ l_n = (\frac{۱}{۳})^{n-۱} l_۱ \end{cases}$$

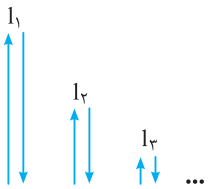

$$\Rightarrow \text{مسافت طی‌شده} = ۲(l_۱ + l_۲ + \cdots + l_۶) = ۲S_۶ = ۲ \times \frac{l_۱(q^۶ - ۱)}{q - ۱}$$

$$\xrightarrow[l_۱=۹]{q=\frac{۱}{۳}} ۲ \times \frac{۹((\frac{۱}{۳})^۶ - ۱)}{\frac{۱}{۳} - ۱} = ۲ \times ۹ \frac{\frac{۱-۳^۶}{۳^۶}}{-\frac{۲}{۳}} = ۲ \times ۹ \frac{\frac{-۱}{۳^۶}(۱-۳^۶)}{\frac{-۲}{۳}}$$

$$= -\frac{۱-۷۲۹}{۲۷} = \frac{۷۲۹-۱}{۲۷} = \frac{۷۲۸}{۲۷} \simeq ۲۶/۹۶ \text{ متر}$$

۴۲

$$a_۱ = ۳۰۰۰۰$$

$$a_۲ = a_۱ + ۰/۱ a_۱ = (۱/۱) a_۱$$

$$a_۳ = a_۲ + ۰/۱ a_۲ = (۱/۱) a_۲ = (۱/۱)^۲ a_۱$$

$$\vdots$$

$$a_n = (۱/۱)^{n-۱} a_۱$$

بنابراین با یک دنبالهٔ هندسی با $a_۱ = ۳۰۰۰۰$ و $q = (۱/۱)$ مواجه هستیم:

$$S_۷ = \frac{a_۱(۱-(۱/۱)^۷)}{۱-۱/۱} = \frac{-۳۰۰۰۰۰}{-۰/۱}(۱-(۱/۱)^۷) = ۳۰۰۰۰۰((۱/۱)^۷ - ۱)$$

$$= ۳۰۰۰۰۰(۱/۹۵ - ۱) = ۳۰۰۰۰۰ \times ۰/۹۵ = ۳۰۰۰ \times ۹۵ = ۲۸۵۰۰۰ \text{ تومان}$$

---

۴۳ آ) قطر $d_۱ = ۱$

$$d_۲ = d_۱ - ۰/۵ d_۱ = ۰/۵ d_۱ = ۰/۵$$

$$d_۳ = d_۲ - ۰/۵ d_۲ = ۰/۵ d_۲ = (۰/۵)^۲$$

$$\vdots$$

بنابراین قطر نیم‌دایره‌ها تشکیل یک دنبالهٔ هندسی با قدرنسبت $q = ۰/۵$ می‌دهند.

$$\text{فاصلهٔ سنگ و کودک} = d_۱ + d_۲ + \cdots + d_۵ = S_۵ = \frac{a_۱(۱-q^۵)}{۱-q}$$

$$= \frac{۱(۱-(۰/۵)^۵)}{۱-۰/۵} = \frac{۱-(\frac{۱}{۲})^۵}{\frac{۱}{۲}}$$

$$= \frac{۱-\frac{۱}{۳۲}}{\frac{۱}{۲}} = \frac{\frac{۳۱}{۳۲}}{\frac{۱}{۲}} = \frac{۲ \times ۳۱}{۳۲} = \frac{۳۱}{۱۶} \simeq ۱/۹۳ \text{ متر}$$

ب)

$$P_۱ = \text{محیط نیم‌دایرهٔ اول} = \frac{۱}{۲}(\pi d_۱) = \frac{\pi}{۲} d_۱ = \frac{\pi}{۲}$$

$$P_۲ = \frac{۱}{۲}(\pi d_۲) = \frac{\pi}{۲} d_۲ = \frac{\pi}{۲}(۰/۵) \quad (\times ۰/۵)$$

$$P_۳ = \frac{۱}{۲}(\pi d_۳) = \frac{\pi}{۲}(۰/۵)^۲ \quad (\times ۰/۵)$$

$$\vdots$$

$$\Rightarrow \text{مسافت پیموده‌شده} = P_۱ + P_۲ + \cdots + P_۵$$

$$= S_۵ = \frac{\frac{\pi}{۲}(۱-(\frac{۱}{۲})^۵)}{۱-\frac{۱}{۲}} = \frac{\pi}{۲} \times \frac{۳۱}{۱۶}$$

$$= \frac{۳۱}{۳۲}\pi = \frac{۳۱ \times ۳/۲}{۳۲} = ۳/۱ \text{ متر}$$

---

۴۴ دنبالهٔ تعداد سکه‌های کادو گرفته برابر است با:

$$۱, ۲, ۴, ۸, \cdots$$

$$\Rightarrow \text{تعداد کل سکه‌ها} = S_{۱۰} = \frac{a_۱(۱-q^{۱۰})}{۱-q} = \frac{۱(۱-۲^{۱۰})}{۱-۲}$$

$$= \underbrace{-(۱-۲^{۱۰})}_{-۱۰۲۳} = ۱۰۲۳$$

$$\text{بهای کل} = ۱۰۲۳ \times ۱۰۰۰۰ = ۱۰,۲۳۰,۰۰۰ \text{ تومان}$$

---

۴۵ وزن کل گندم‌های جایزهٔ مخترع برابر است با:

$$\underbrace{۱ + ۲ + ۲^۲ + ۲^۳ + \cdots + ۲^{۶۴}}_{\text{دنبالهٔ هندسی با } q=۲ \text{ و } n=۶۵} = \frac{۱(۲^{۶۵}-۱)}{۲-۱} = ۲^{۶۵} - ۱$$

از طرفی داریم:

$$۲^{۱۰} \simeq ۱۰۰۰ \Rightarrow ۲^{۱۰} \simeq ۱۰^۳ \xrightarrow{\text{توان } ۶} ۲^{۶۰} \simeq (۱۰^۳)^۶ = ۱۰^{۱۸}$$

$$\Rightarrow ۲^{۶۵} - ۱ \simeq ۲^۵ \times ۱۰^{۱۸} = ۳۲ \times ۱۰^{۱۸}$$

از طرفی می‌دانیم:

$$۱ \text{ میلیارد تن} = ۱۰^۹ \times ۱۰۰۰ \times ۱۰۰۰ = ۱۰^{۱۵} \text{ گرم}$$

بنابراین جایزهٔ مخترع تقریباً ۳۲۰۰۰ میلیارد تن گندم است.

مشاوره و راهنمای انتخاب بهترین منابع کنکور : 021-28425210